جامعة كفرالشيخ
كلية الهندسة
قسم الهندسة المعمارية

| | | |
|---|---|---|
| امتحان الفصل الدراسي الثاني | مادة: الظل والمنظور | العام الجامعي 2016- 2017 |
| مدة الامتحان:4 ساعات | الفرقة الاولي عمارة | تاريخ الامتحان / /2017 |

درجة الامتحان : 40 درجة

## السؤال الأول ( 20 درجة)

مطلوب رسم الظل والظلال علي الواجة ألامامية والمسقط الافقي بالرسم المرفق بمقياس رسم 100/1

## السؤال الثاني ( 20 درجة)

مطلوب رسم منظور عين الانسان للمبني بالرسم المرفق بمقياس رسم 100/1

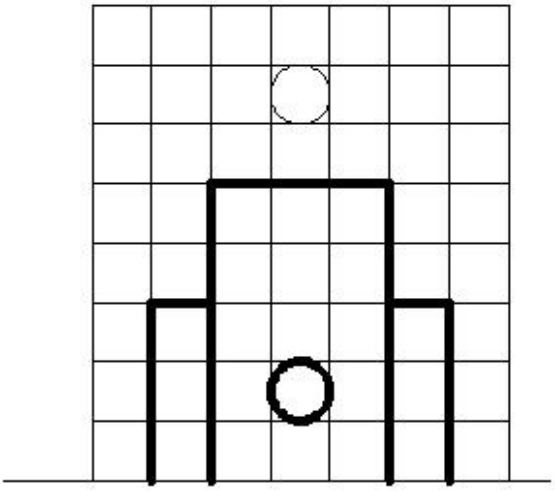

واجهة امامية

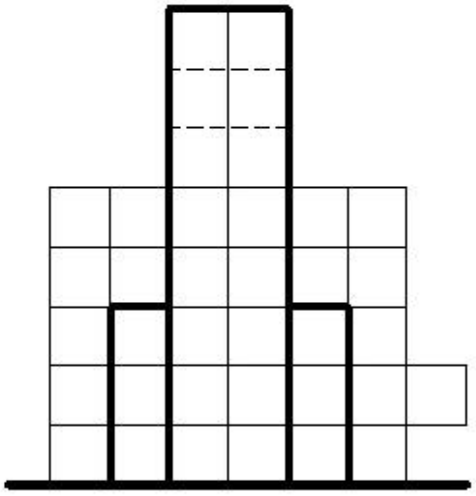

واجهة جانبية

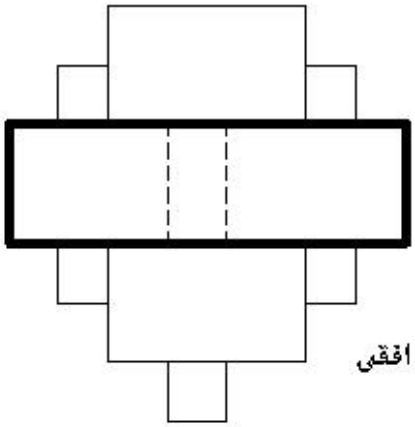

مسقط افقي

المبنى عبارة عن مكعبات
بابعاد ٣×٣×٣ م

منياتي بالتوفيق
أ.د./ أسامة الفقي